TOPLAMA İŞLEMİ PROBLEMLER

1. Uğur'un 7 tane , Seher'in 4 tane fındığı var. İkisinin toplam kaç tane fındığı var?



2. Kutuda 9 tane mavi boncuk var. Mavi boncuklardan 5 tane fazla yeşil boncuk var. Kutuda kaç tane yeşil boncuk var?



3. Melih 10 yaşındadır. Ablası ise Melih'ten 3 yaş büyüktür. Melih'in ablası kaç yaşındadır?



4. Babam 8 kilogram patates, 4 kilogram soğan aldı. Babamın aldıkları toplam kaç kilogramdır?

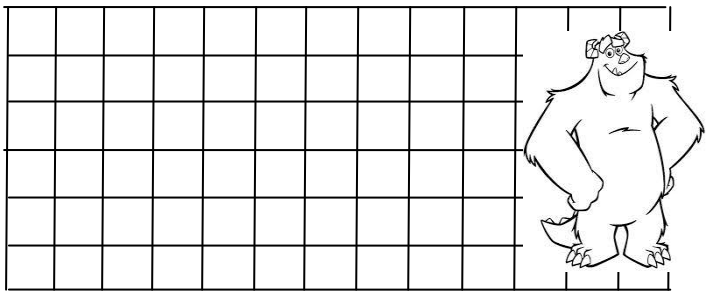

5. Salih 10 lira , Meral 6 lira harcamış. Salih ve Meral toplam kaç lira harcamış?



6. Bahçede 11 çocuk oyun oynarken, 4 çocuk daha oyuna katılıyor. Oyun oynayan toplam kaç çocuk olmuştur ?



7. Çınar tabaktaki fındıkların 8 tanesini yiyince tabakta 10 tane fındık kalmış. Çınar fındıkları yemeden önce tabakta kaç tane fındık vardı ?



8. Otobüsteki yolculardan 6 tanesi inince geriye 9 yolcu kalmış. Yolcular inmeden önce otobüste kaç yolcu vardı ?