ADI SOYADI: ÇARPMA İŞLEMİ PROBLEMLERİ 2

1

Çarpanları en büyük tek ve çift rakam olan çarpma işleminde çarpım kaçtır?

2

3 onluk ve 7 birlikten oluşan saynın 6 katı kaçtır?

3

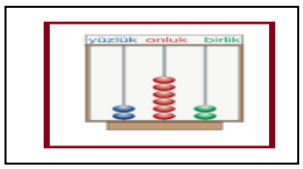

Yukarıdaki sayının 2 katının 123 eksiği kaçtır?

4

Ayfer en büyük rakamla ,üç basamaklı rakamları farklı en küçük sayıyı çarpıyor. Ayfer çarpımı kaç bulur?

5

Derin 10 yaşındadır. Babasının yaşı Derin 'in yaşının 4 katıdır. İksinin yaşları farkı kaçtır?

6 Sude ilk gün 28 sayfa, ikinci gün ilk okuduğu sayfa sayısının 2 katı kadar kitap okumuştur.Sude iki günde toplam kaç sayfa kitap okumuştur ?	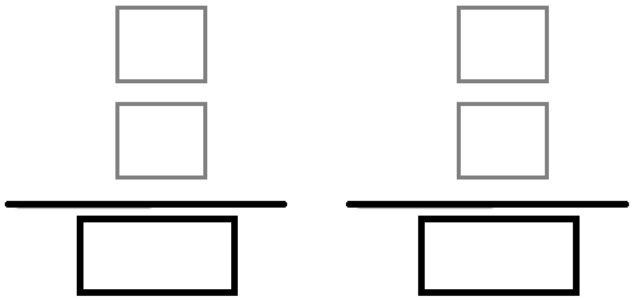
7 Günde 8 bardak su içen Beril, iki haftada kaç bardak su içmiş olur?	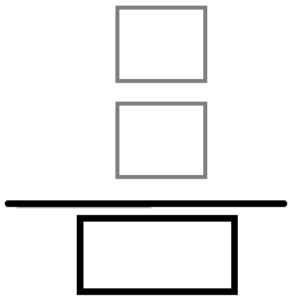
8 Çarpanlarından birisi 207,diğeri 4 olan çarpma işleminde çarpım kaçtır?	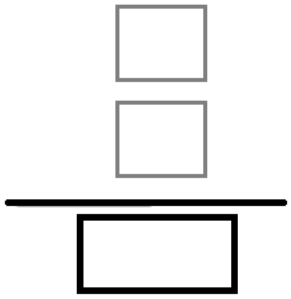
9 Üç basamaklı rakamları farlı en küçük tek sayının 5 katı,üç basamaklı en küçük sayıdan kaç fazladır?	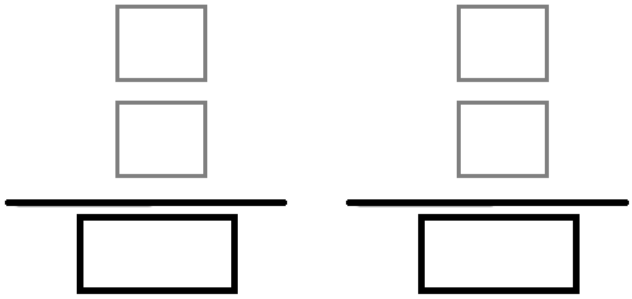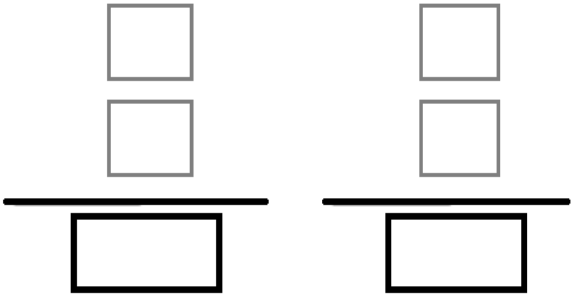
10 Murat ve Meral ikiz kardeşler 8 yaşındadır. İkisinin yaşları toplamının 8 katı kaçtır?