Dolu Dolu

64 SAYFA

METİN İLE İLGİLİ
5N1K
DOĞRU YANLIŞ
TEST
SORULARI

TOPLAM
345 soru

EĞLENCELİ
OKUMA ANLAMA
ETKİNLİKLERİ

SİPARİŞ
0 552 252 83 85

EN AZ 10 TANE ALIM

KARGO ÜCRETSİZ

Fiyat : 10 TL

Sipariş Whatsapp :

0 552 252 83 85



Adı : ..... Soyadı : ..... Sınıfı : ..../.... No : .....

GEOMETRİK CİSİMLER VE ŞEKİLLER

13. Geometrik Şekiller

BİLGİ



Ben üçgen
3 kenarım
3 köşem
vardır.



Ben kare
4 kenarım
4 köşem
vardır.



Ben çember
kenarım ve
köşem
yoktur.



Ben dikdörtgen
4 kenarım
4 köşem
vardır.

www.ufukkoca.com

ETKİNLİK

1 Aşağıda verilen noktaları birleştirerek istenen geometrik şekli çiziniz.

kare	üçgen	dikdörtgen
. . . . .	. . . . .	. . . . .
. . . . .	. . . . .	. . . . .
. . . . .	. . . . .	. . . . .
. . . . .	. . . . .	. . . . .

ETKİNLİK

2 Aşağıda verilen resimdeki geometrik şekilleri yanda verilen renklere göre boyayınız.



üçgen = sarı
kare = mavi
dikdörtgen = turuncu
çember = kırmızı

ETKİNLİK

3 Aşağıda verilen tren resmini inceleyiniz. Kaç kare, kaç dikdörtgen, kaç üçgen ve kaç çember olduğunu yan tarafa yazınız.



.....

.....

.....

.....

ETKİNLİK

4 Aşağıda verilen şekillerin adını, kenar sayısını ve köşe sayısını yanındaki tabloda uygun yere yazınız.

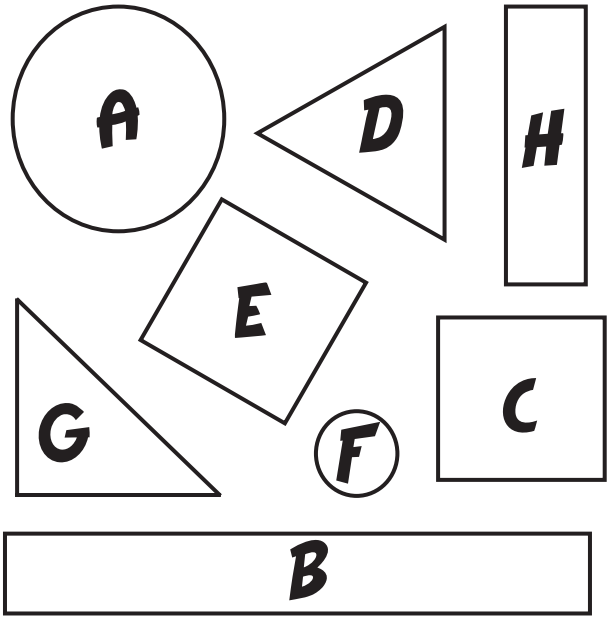

Şekil	Şeklin Adı	Kenar Sayısı	Köşe Sayısı
A			
B			
C			
D			
E			
F			
G			
H			

ETKİNLİK

5 Aşağıda verilen ifadeler doğru ise başındaki kutucuğa "D" harfi, yanlış ise başındaki kutucuğa "Y" harfi yazınız.

- ☐ Karenin dört köşesi vardır.
- ☐ Karenin kenar uzunlukları eşittir.
- ☐ Üçgende köşe yoktur.
- ☐ Dikdörtgende üç kenar vardır.
- ☐ Çemberin kenarı yoktur.
- ☐ İçi dolu çembere daire denir.



10 TL

Whatsapp Sipariş

0 552 252 83 85

Kargo Ücretsiz

EN AZ 10 TANE ALIM

48 DEYİM - 110 SAYFA

14 SAYFA ETKİNLİK SORULARI