ÇIKARMA İŞLEMİ

a. 4 - 1 = 3 Dört eksi bir eşittir üç.

b. 7 - 2 = ...

c. 8 - 5 = ...

d. 6 - 2 = ...

e. 9 - 3 = ...

f. 5 - 2 = ...

g. 8 - 6 = ...

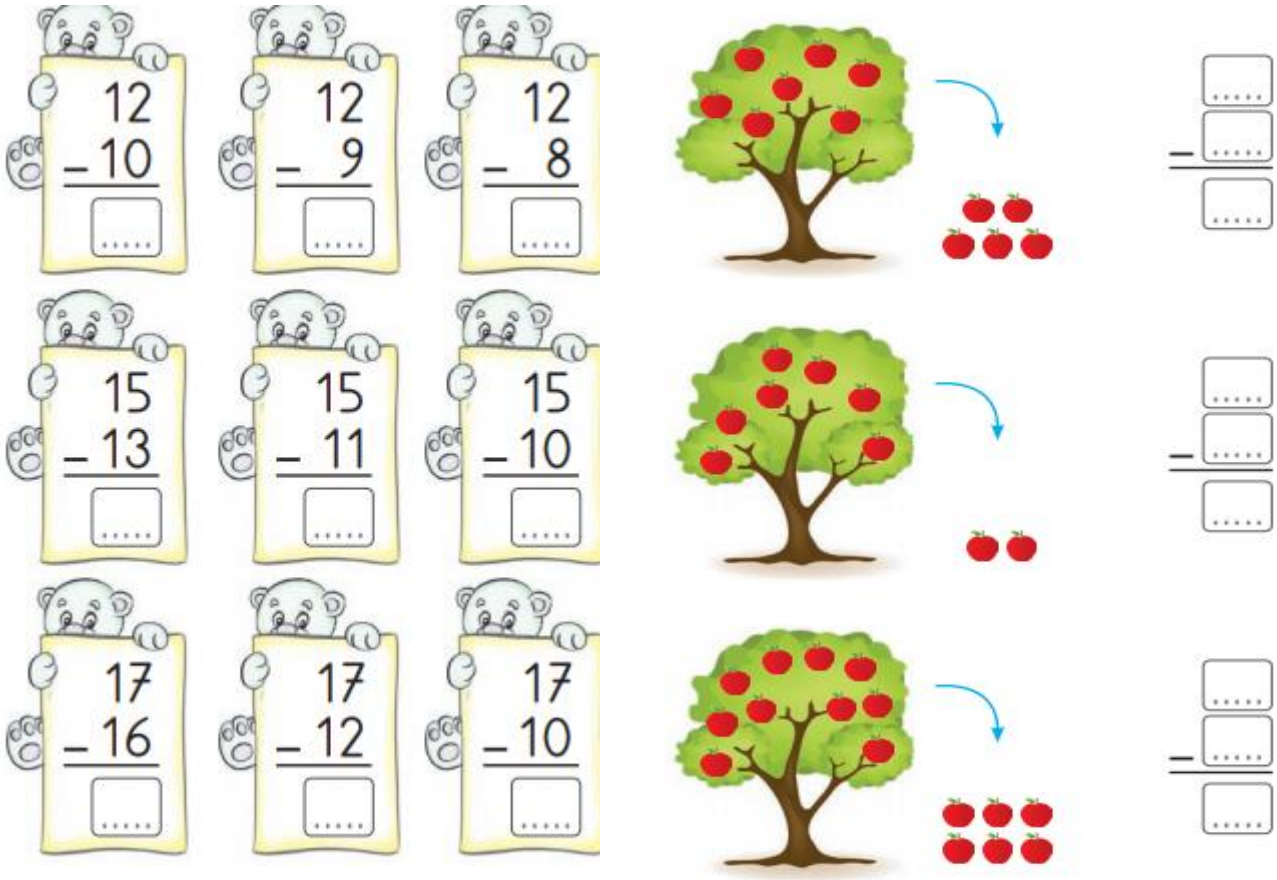

Aşağıdaki çıkarma işlemlerini yapalım. "Çıkan" sayının üstüne sayarak aradaki farkı bulalım.

a. 9 – 7 = ...	b. 10 – 9 = ...	c. 8 – 6 = ...
d. 10 – 8 = ...	e. 11 – 7 = ...	f. 12 – 9 = ...
g. 13 – 9 = ...	h. 12 – 8 = ...	ı. 10 – 7 = ...
i. 11 – 9 = ...	j. 7 – 6 = ...	k. 9 – 8 = ...
l. 12 – 8 = ...	m. 9 – 6 = ...	n. 11 – 8 = ...

Aşağıda modellenmiş olan çıkarma işlemlerinde noktalı yerlere uygun sayıları yazalım.

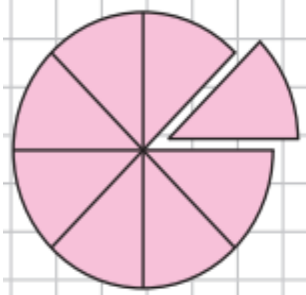

Eksilen: .....
Çıkan: .....
Fark: .....

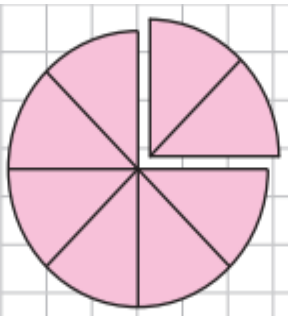

Eksilen: .....
Çıkan: .....
Fark: .....

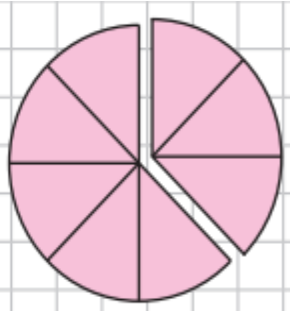

Eksilen: .....
Çıkan: .....
Fark: .....

Aşağıdaki toplama ve çıkarma işlemlerini yapalım.

a. 5 + 2 = ... − 1 = ...

b. 6 + 3 = ... − 2 = ...

c. 4 + 4 = ... − 6 = ...

d. 5 + 5 = ... − 3 = ...

e. 9 + 3 = ... − 3 = ...

f. 9 + 5 = ... − 4 = ...

g. 10 + 6 = ... − 4 = ...

h. 8 + 6 = ... − 5 = ...

ı. 11 + 4 = ... − 3 = ...

i. 12 + 5 = ... − 6 = ...

j. 10 + 8 = ... − 8 = ...

k. 14 + 2 = ... − 4 = ...