TOPLAMA VE ÇIKARMA İŞLEMİ İLE İLGİLİ PROBLEMLER

1. Recep 19 sayfa olan hikaye kitabının tamamını okumuş. Geriye okuyacağı kaç sayfa kalmıştır?



2. Amcam 37 yaşında. Amcam 5 yıl önce kaç yaşındaydı?

3. Sınıfımızda 16 tane erkek , 13 tane kız öğrenci var. Sınıfımızda kaç öğrenci vardır?



4. Gamze ile Ceren'in boncuklarının sayısı birbirine eşittir. Gamze'nin 24 tane boncuğu olduğuna göre, ikisinin toplam kaç boncuğu vardır?

5. Soner 28 tane fındığı var. Meral'in ise fındıkları ise Soner'in fındıklarından 12 azdır. Meral'in kaç tane fındığı vardır?

6. Ömer'in annesi 25 yaşındadır. Babası ise annesinden 4 yaş büyüktür. Ömer'in babası kaç yaşındadır ?



7. Tuncay 20 problemin tamamını çözmüş. Geriye kaç tane çözülecek problem kalmış?

8. Tabaktaki 36 tane fındığın 24 tanesini arkadaşlarımla yedik. Geriye kaç tane fındık kalmıştır ?