ÇARPMA İŞLEMİ GEREKTİREN PROBLEMLER ALPmatik

9 sayısının 5 katı kaçtır?

5 sayısının 5 katının 13 eksiği kaçtır?

0'a yuvarlanabilen en büyük sayı ile 10' a yuvarlabilen en küçük sayının çarpımı kaçtır?

Leyla 7 yaşındadır. Babasının yaşı Leyla'nın yaşının 4 katı kadardır.

Buna göre :

A) Leyla ile babasının yaşları toplamı kaçtır?

B) Leyla ile babasının yaşları farkı kaçtır?

Büşraların 9 tane kümesi vardır. Her kümeste 5 tane tavuk vardır. Büşra tavukların 2 düzinesini satmıştır. Geriye kaç tavuğu kalmıştır?

Ali her gün 3 lira harcamaktadır. Ali bir haftada kaç lira harcamıştır?

Tanesi 3 TL olan kalemlerden 8 tane aldım. Satıcıya 40 TL verirsem kaç TL para üstü alırım?

Enes'in ailesi hafta içi günlerde her gün 2 ekmek, hafta sonu günlerde her gün 3 ekmek tüketmektedir. Buna göre Eneslerin ailesi bir haftada toplam kaç ekmek tüketmiştir?

ÇARPMA İŞLEMİ GEREKTİREN PROBLEMLER ALPmatik

5 Katlı bir apartmanın her katında 2 daire vardır. Her dairede 5 kişi yaşadığına göre bu apartmanda toplam kaç kişi yaşamaktadır?

7 kedi ve 5 insanın toplam kaç tane ayağı vardır?

Kare ile dairenin köşe sayıları çarpımı kaçtır?

En büyük rakamın 4 katı kaçtır?

1 kova 3 sürahi su almaktadır.
1 sürahi 4 bardak su almaktadır.

Yukarıdaki bilgilere göre 3 kova kaç bardak su alır?



Ben her gün 4 kg saman yerim.

Ben her gün 2 kg saman yerim.

Yukarıda verilen hayvanlar 1 haftada toplam kaç kg saman yer?

Bakkal amcanın yandaki koli gibi 8 koli yumurtası vardır.

Bakkal amca yumurtaların 15 tanesini sabah 25 tanesini akşam sattığına göre geriye kaç tane yumurtası kalmıştır?

Bir otobüste 10 koltuk vardır. Koltukların 7 tanesinde 2'şerli geriye kalanlarda 3'erli oturulmaktadır. Buna göre bu otobüs kaç kisiliktir?

ÇARPMA İŞLEMİ GEREKTİREN PROBLEMLER ALPmatik

X	1	2	3	4	5
1					
2					
3					
4					
5					
6					
7					
8					
9					
10					



Yukarıdaki meyvelerin kilogram fiyatları verilmiştir.

Manavdan 2 kilogram elma ve 4 kilogram çilek alırsam kaç TL öderim?



Bir kutu 6 bardak süt almaktadır.

Evimizde 2 kutu süt vardır. Annem kek yaparken 10 bardağını kullanmıştır. Geriye kaç bardak süt kalmıştır?

Kırtasiyeden 5 kalem ve 4 defter alırsam satıcıya kaç TL öderim?

Kırtasiyeden 2 kalem ve 4 defter aldım. Satıcıya 50 TL verirsem kaç TL para üstü alırım?

ÇARPMA İŞLEMİ GEREKTİREN PROBLEMLER ALPmatik

Bir manavdaki meyvelerin kilogram fiyatları aşağıda verilmiştir.

4 TL

7TL

3TL

2 TL

4TL

2 TL

Manavdan 3 kilogram nar ve 6 kg elma alırsam satıcıya ne kadar öderim?

Cebimde 20 TL vardır. 3 kg kivi alabilmem için kaç TL'ye ihtiyacım vardır?

Her meyveden birer kilo alırsam satıcıya kaç TL öderim?

Cebimde 80 TL ile manava gittim. Manavdan 3 kilogram kayısı ve 3 kilogram armut alırsam cebimde kaç TL kalır?

Her meyveden ikişer kilo alıp satıcıya 90 TL verirsem kaç TL para üstü alırım?

Cebimde yukarıdaki paralar vardır. Manavdan 4 kilogram armut almak için kaç TL'ye ihtiyacım vardır?