TOPLAMA İŞLEMİ PROBLEMLER

1. 10 ' nun 6 fazlası kaçtır ?



2. 8 ' e 9 eklersek kaç olur?



3. Vazoya 7 tane çiçek koydum. Ablam ise 6 tane çiçek koydu. Vazoda kaç tane çiçek olmuştur?



4. Dedem dün 12 tane koyun sattı. Bugün ise 7 tane koyun sattı. Dedem kaç tane koyun satmıştır?



5. Cemil önce 6 tane , sonra 6 tane daha fındık yemiş. Cemil kaç tane fındık yemiştir?



6. Ece 5 yaşındadır. Soner ise Ece'den 3 yaş büyüktür. Soner kaç yaşındadır?



7. 10 ' un 4 fazlası kaç olur?



8. Ece 5 yaşındadır. Soner ise Ece'den 4 yaş büyüktür. Soner kaç yaşındadır?



Bulduğunuz sonuçları soru numaralarıyla eşleştirelim.

14 .... 12 .... 13 .... 9 .... 19 .... 8 .... 17 .... 16 ....